تم تحميل هذا الملف من موقع المناهج الإماراتية	
	almanahj.com/ae موقع المناهج الإماراتية

الملف أسئلة الامتحان النهائي الالكتروني بريدج
موقع المناهج ⇦ المناهج الإماراتية ⇦ الصف السادس ⇦ رياضيات ⇦ الفصل الثالث

روابط مواقع التواصل الاجتماعي بحسب الصف السادس			
روابط مواد الصف السادس على تلغرام			
التربية الاسلامية	اللغة العربية	اللغة الانجليزية	الرياضيات

المزيد من الملفات بحسب الصف السادس والمادة رياضيات في الفصل الثالث	
1	أسئلة الامتحان النهائي الورقي بريدج
2	حل أسئلة الاختبار التحريبي نخبة
3	حل أسئلة وفق الهيكل الوزاري نخبة
4	أسئلة الاختبار التحريبي نخبة
5	حل نموذج تدريبي للاختبار النهائي

distribution.

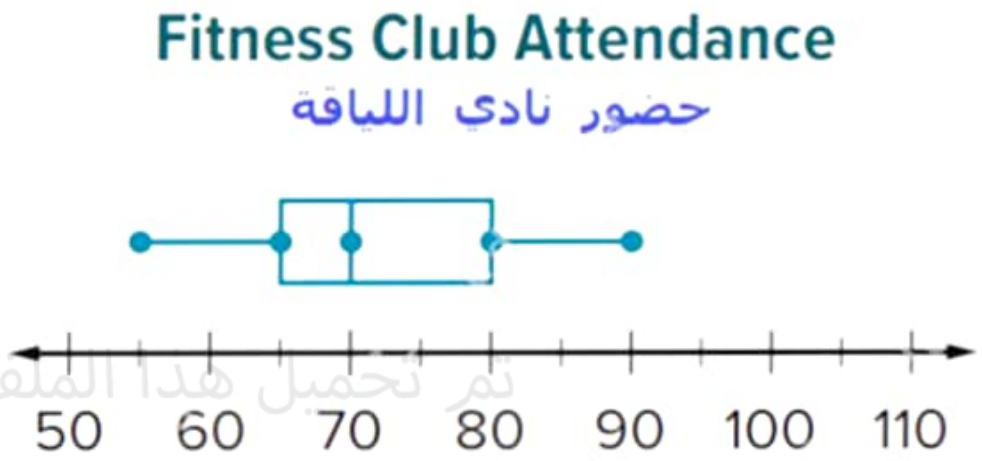

تم تحميل هذا الملف من
موقع المناهج الإماراتية
alManahj.com/ae

a. المتوسط الحسابي
The mean

b. الوسيط
The median

and its height is 8 yd .

ارتفاعه 8 yd. أوجد قاعدته.

Find its base.

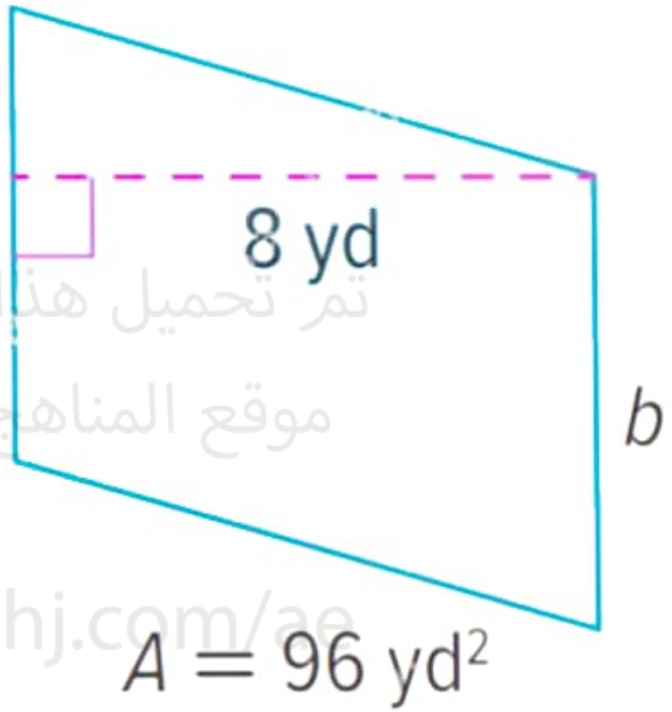

تم تحميل هذا الملف من
موقع المناهج الإماراتية
alManahj.com/ae

a. 12 yd

Temperatures درجات الحرارة

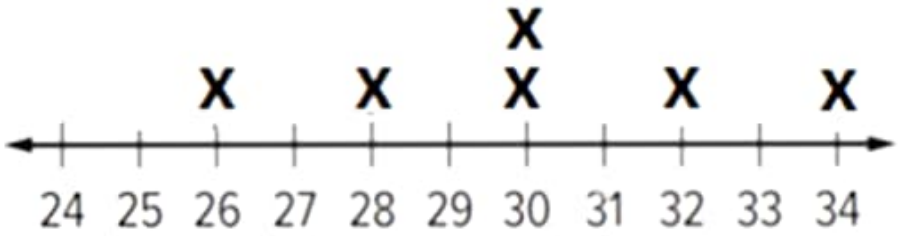

تم تحميل هذا الملف من
موقع المناهج الإماراتية
alManahj.com/ae

a. 6

b. 26

c. 8

P2: متوسط الانحراف المطلق لمجموعة بيانات

The table below shows the number of daily visitors to a website on the internet. Find the mean absolute deviation of the data.

يوضح الجدول أدناه عدد الزوار لموقع على الانترنت يومياً. أوجد متوسط الإنحراف المطلق للبيانات.

The number of visitors عدد الزوار			
46	58	50	50

تم تحميل هذا الملف من موقع المناهج الإماراتية
alManahj.com/ae

a. 3.5

b. 0

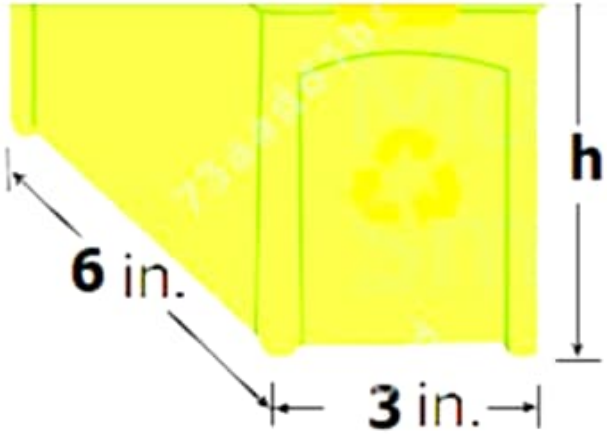

تم تحميل هذا الملف من
موقع المناهج الإماراتية
alManahj.com/ae

.a 10 in

.b 6 in

.c 4 in

أطوال عدة جسور مختلفة بالأقدام هي: 200، 250، 180، 300، 1,000

حدّد أي قيمة متطرفة في البيانات.

lengths, in feet, of various bridges are:

1,000، 300، 180، 250، 200.

Identify any outlier in the data.

a. 180 ft

b. 300 ft

c. 1000 ft

d. 250 ft

تم تحميل هذا الملف من
موقع المناهج الإماراتية
alManahj.com/ae

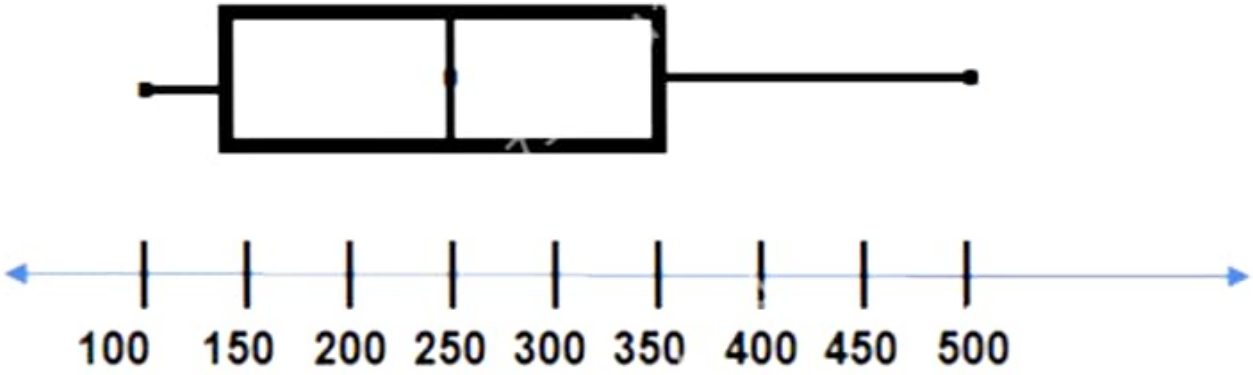

تم تحميل هذا الملف من
موقع المناهج الإماراتية
alManahj.com/ae

.a 100

.b 140

.c 250

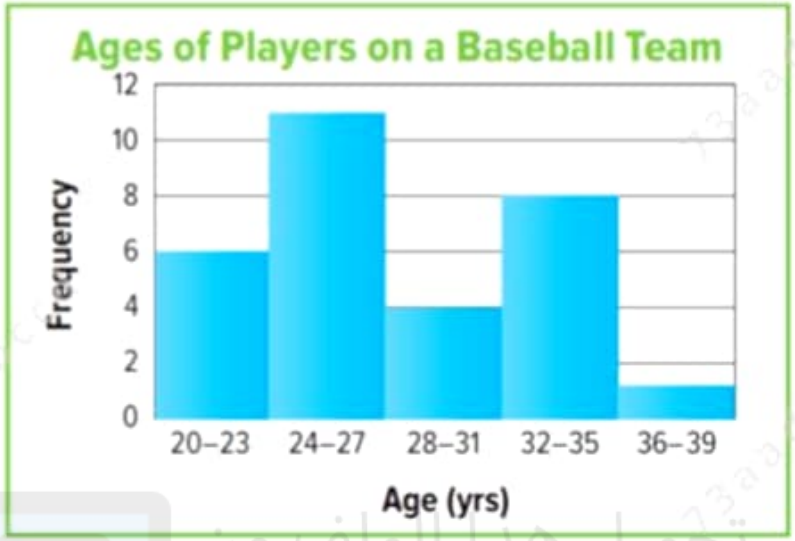

تم تحميل هذا الملف من
موقع المناهج الإماراتية
alManahj.com/ae

.a 8

.b 6

P1: ايجاد المنوال لقيم

Find the mode for the age of staff.

$49, 25, 30, 49, 36, 49, 25.$

أوجد المنوال لأعمار الموظفين.

$49, 25, 30, 49, 36, 49, 25$

a. 36

b. 49

c. 25

تم تحميل هذا الملف من
موقع المناهج الإماراتية
alManahj.com/ae

$89, 67, 45, 59, 68, 94, 75$

أوجد الوسيط للقيم.

$89, 67, 45, 59, 68, 94, 75$

Find the median of the data.

a. 59

b. 67

c. 68

d. 45

تم تحميل هذا الملف من
موقع المناهج الإماراتية
alManahj.com/ae

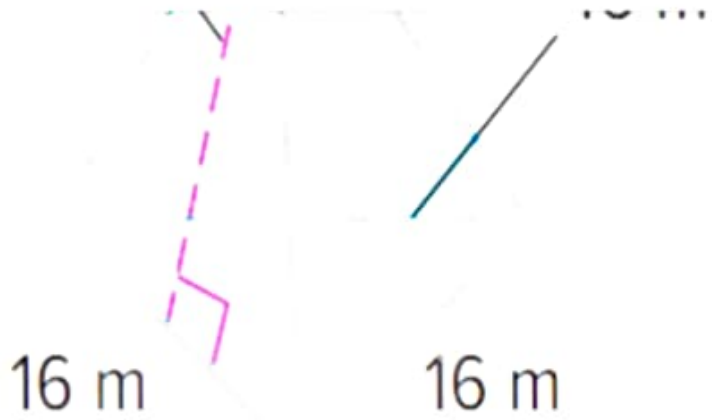

تم تحميل هذا الملف من
موقع المناهج الإماراتية
alManahj.com/ae

a. $S.A. = 111 + (48)(20) = 1071$

b. $S.A. = 111 \times (16 + 20) = 3996$

c. $S.A. = 111 + \frac{1}{2}(48)(20) = 591$

.b

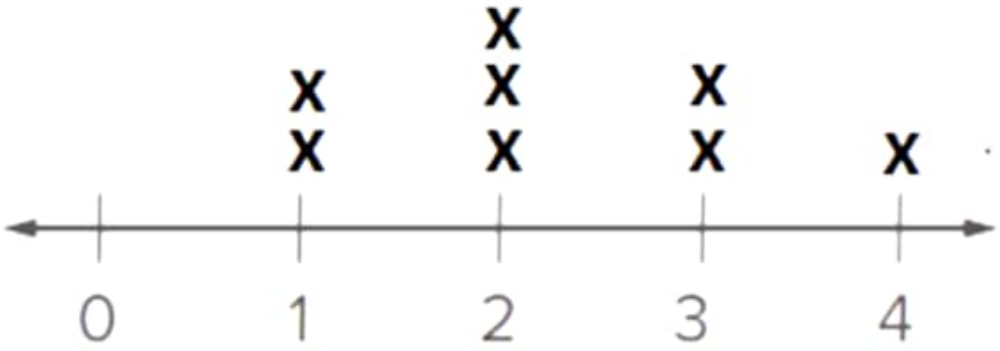

.c

.d

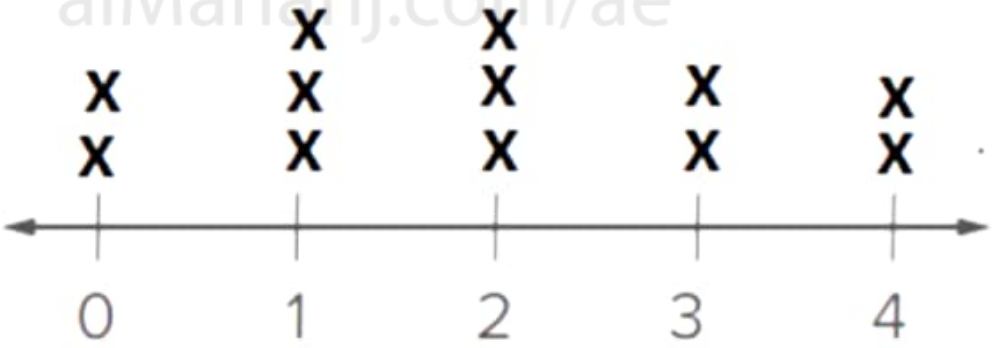

تم تحميل هذا الملف من
موقع المناهج الإماراتية
alManahj.com/ae

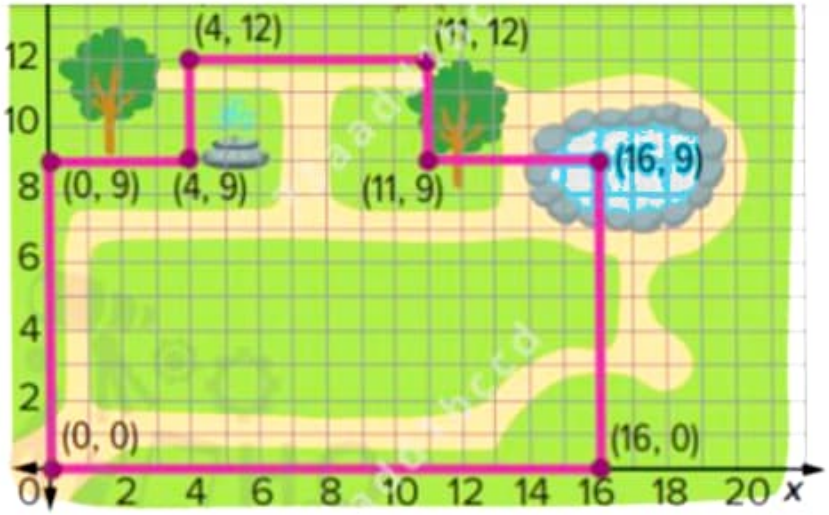

تم تحميل هذا الملف من
موقع المناهج الإماراتية
alManahj.com/ae

a. 66 units

b. 86 units

c. 68 units

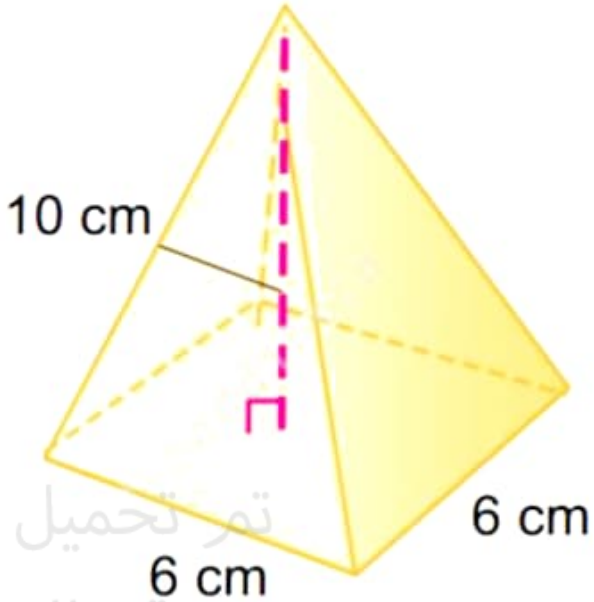

تم تحميل هذا الملف من
موقع المناهج الإماراتية
alManahj.com/ae

.a $360\ cm^3$

.b $120\ cm^3$

a. $54\ in^2$

b. $72\ in^2$

c. $94\ in^2$

d. $64\ in^2$

تم تحميل هذا الملف من
موقع المناهج الإماراتية
alManahj.com/ae

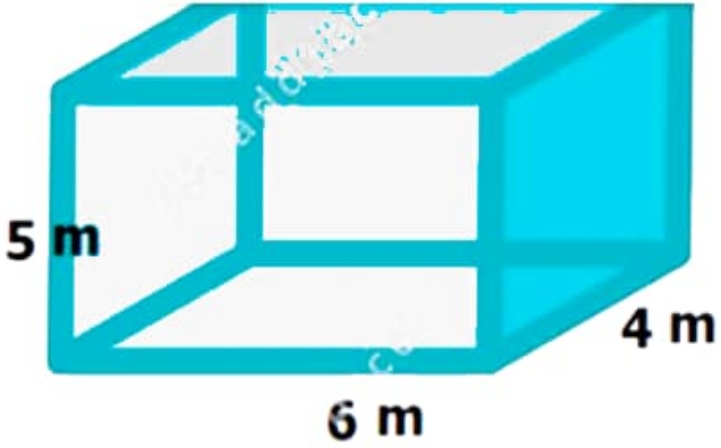

تم تحميل هذا الملف من
موقع المناهج الإماراتية
alManahj.com/ae

a. $107\ m^3$

b. $120\ m^3$

c. $15\ m^3$

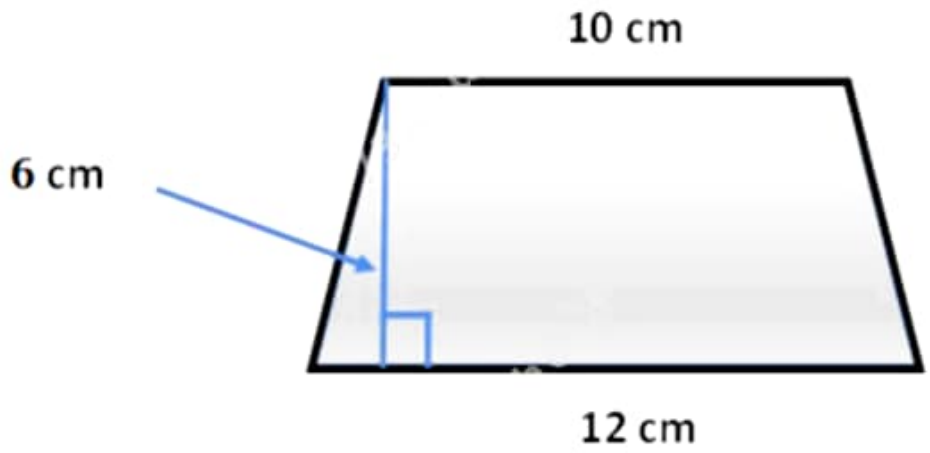

تم تحميل هذا الملف من
موقع المناهج الإماراتية
alManahj.com/ae

a. $44\ cm^2$

b. $66\ cm^2$

c. $120\ cm^2$

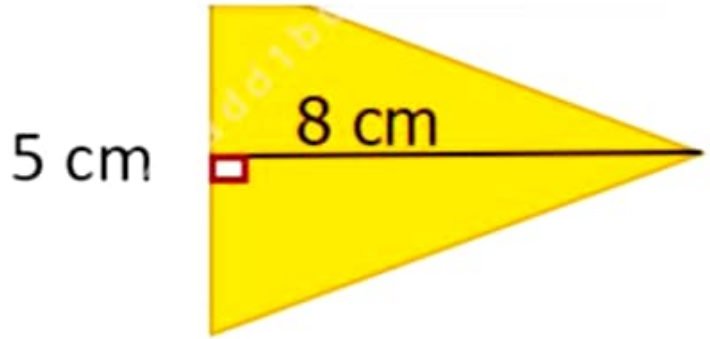

a. $40\ cm^2$

b. $80\ cm^2$

c. $20\ cm^2$

تم تحميل هذا الملف من
موقع المناهج الإماراتية
alManahj.com/ae

Use the graph below to find the area of the Parallelogram.

استخدم الشكل أدناه لإيجاد مساحة متوازي الأضلاع.

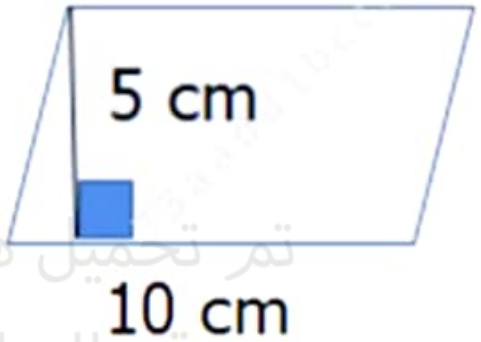

تم تحميل هذا الملف من موقع المناهج الإماراتية
alManahj.com/ae

a. $15\ cm^2$

b. $50\ cm^2$